Таблица сложения стр. 72

Урок № 112

Школа России

Математика 1 класс

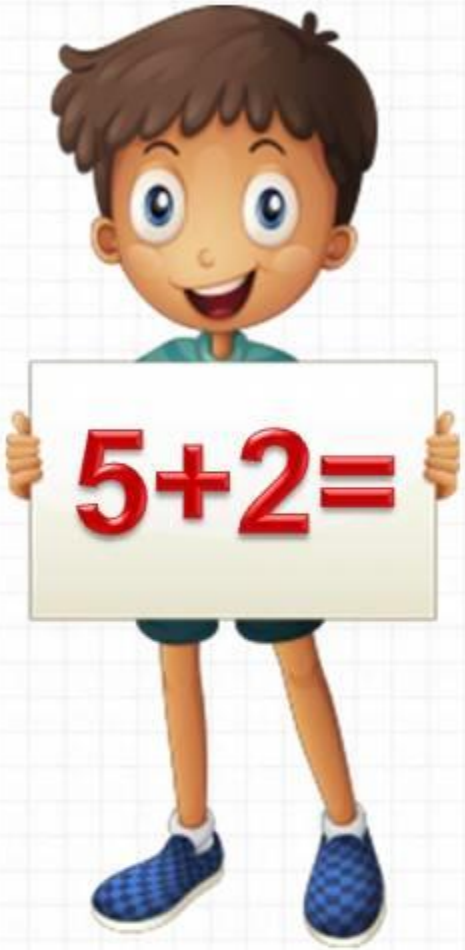

Устный счёт

Найди вагончики с ответом 14 .

Реши цепочки примеров.

8 → + 3 → - 5 → 6

9 → + 8 → - 7 → 10

Купили 5 бананов и 7 яблок. За ужином съели 4 фрукта. Сколько всего фруктов осталось?

8 фруктов

5 + 7 – 4 = 8



Составьте задачи по рисункам и выражениям.

5 – 3

5 + 3

5 + 3 - 2

Галя веселее **Оли**, а **Оля** веселее **Иры**. Кто самый веселый?

Галя

Работа по учебнику

стр. 72

Таблица сложения

Проследи, как изменяется первое слагаемое; сумма (рассмотри столбцы, строки).

9+2=11	8+3=11	7+4=11	6+5=11
9+3=12	8+4=12	7+5=12	6+6=12
9+4=13	8+5=13	7+6=13	
9+5=14	8+6=14	7+7=14	
9+6=15	8+7=15		
9+7=16	8+8=16		
9+8=17			
9+9=18			

СРАВНИ:

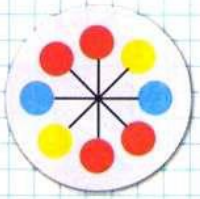

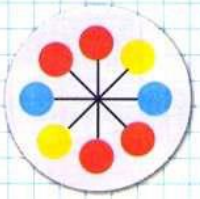

1. 1) Найди по таблице все примеры с ответом 11, 12, 13, 14, 15, 16, 17, 18.
   2) По каждому примеру на сложение составь и реши два примера на вычитание.

2. Весной Даша и Наташа были одинакового роста. За лето Даша выросла на 5 см, а Наташа — на 2 см. На сколько сантиметров одна девочка стала выше другой? Назови её имя.

3. Подбери недостающие числа. Реши задачи.
   1) Высота стула □ дм, а стола □ дм. На сколько дециметров стол выше стула?
   2) Миша купил ручку за □ р. и блокнот за □ р. Сколько рублей ему должны дать сдачи с 10 р.?

4. Составь верные равенства и неравенства, используя следующие числа:
   13, 8, 7, 15, 9, 6, 5.

«Проверочные работы», с. 44, 45.

Таблица сложения

Проследи, как изменяется первое слагаемое; сумма (рассмотри столбцы, строки).

9+2=11	8+3=11	7+4=11	6+5=11
9+3=12	8+4=12	7+5=12	6+6=12
9+4=13	8+5=13	7+6=13	
9+5=14	8+6=14	7+7=14	
9+6=15	8+7=15		
9+7=16	8+8=16		
9+8=17			
9+9=18			

1. 1) Найди по таблице все примеры с ответом 11, 12, 13, 14, 15, 16, 17, 18.
   2) По каждому примеру на сложение составь и реши два примера на вычитание.

2. Весной Даша и Наташа были одинакового роста. За лето Даша выросла на 5 см, а Наташа — на 2 см. На сколько сантиметров одна девочка стала выше другой? Назови её имя.

3. Подбери недостающие числа. Реши задачи.
1) Высота стула □ дм, а стола □ дм. На сколько дециметров стол выше стула?
2) Миша купил ручку за □ р. и блокнот за □ р. Сколько рублей ему должны дать сдачи с 10 р.?

4. Составь верные равенства и неравенства, используя следующие числа:
13, 8, 7, 15, 9, 6, 5.

Работа в тетради

стр. 38 (1- 3)

1 Мама испекла 5 пирожков, а ватрушек на 2 меньше, чем пирожков. Сколько всего пирожков и ватрушек испекла мама?

Какой схематический рисунок подходит к этой задаче?

Раскрась его и реши задачу.

Ответ:

2

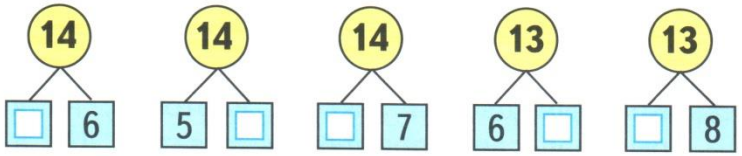

3 Начерти два отрезка длиной 9 см каждый. На первом отрезке поставь точку так, чтобы получилось два отрезка длиной 4 см и 5 см.

На втором отрезке поставь точку так, чтобы получилось два отрезка, один из которых на 5 см длиннее другого.

1 Мама испекла 5 пирожков, а ватрушек на 2 меньше, чем пирожков. Сколько всего пирожков и ватрушек испекла мама?

Какой схематический рисунок подходит к этой задаче?

Раскрась его и реши задачу.

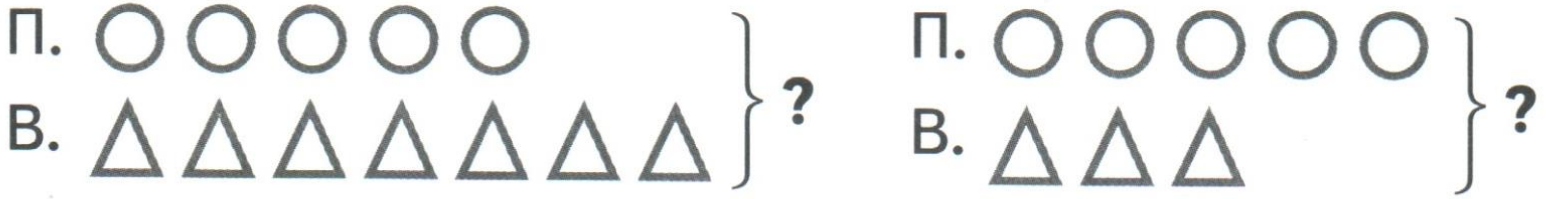

Ответ:

2

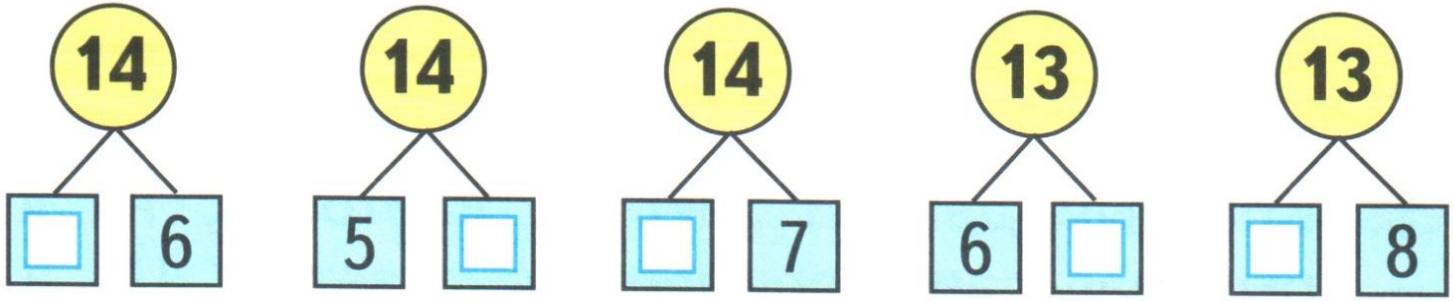

3 Начерти два отрезка длиной 9 см каждый. На первом отрезке поставь точку так, чтобы получилось два отрезка длиной 4 см и 5 см.

На втором отрезке поставь точку так, чтобы получилось два отрезка, один из которых на 5 см длиннее другого.

Повторение

Реши примеры.

$$9 + 7 - 4 - 3 =$$

$$8 + 8 + 4 - 10 =$$

$$11 - 2 + 4 - 3 =$$

Найдите примеры с ответом 14.

8 + 6 =

9 + 3 =

9 + 5 =

8 + 5 =

7 + 6 =

7 + 7 =

10 + 4=

17 – 3 =

Задания на смекалку

Летела стая гусей. Один гусь впереди, два - сзади. Один гусь между двумя и три гуся рядом. Сколько гусей в стае?



3

Сестра старше брата на 5 лет. На сколько лет она будет старше брата через 7 лет?

на 5 лет

Двое пошли - 3 гвоздя нашли. Следом четверо пойдут - много ли гвоздей найдут?



Скорей всего ничего не найдут.

Шла баба в Москву и повстречала 3 мужиков. Каждый из них нес по мешку, в каждом мешке по 1 коту. Сколько существ направлялось в Москву?

Москва

Только баба.

Рефлексия

Чему научил вас урок?

Какие задания понравились?

Что вызвало трудность?

Чью работу вам бы хотелось отметить?

Оцени свою работу на уроке.

Конец